INSTITUTO SAGAZ

ESTADO DO RIO GRANDE DO NORTE
INSTITUTO SAGAZ
PROCESSO SELETIVO PÚBLICO - EDITAL 001/2022

FENAZ DO PARÁ

CADERNO DE QUESTÕES

MOTORISTA (SEQ.06) – NIVEL MÉDIO

NOME DO CANDIDATO: _____

NÚMERO DE INSCRIÇÃO: ☐☐☐☐☐

INSTRUÇÕES AO CANDIDATO. LEIA COM ATENÇÃO!

1. Este **CADERNO DE QUESTÕES** contém **40 (quarenta) QUESTÕES** de múltipla escolha referente a **Prova Objetiva**, correspondentes ao caro de sua concorrência.
2. Cada questão apresenta 5 **(cinco)** alternativas identificadas com as letras **A, B, C, D e E,** sendo apenas **1 (uma)** correta.
3. Confira se o seu **CADERNO DE QUESTÕES** contém a quantidade de questões descritas no **item 1** e se o **cargo** para o qual voce foi inscrito está correto. Caso esteja incompleto ou apresente qualquer defeito, comunique imediatamene ao fiscal de sala, para que seja realizada a substituição.
4. Observe na **FOLHA DE RESPOSTAS** se seus dados estão registrados corretamente. Caso haja alguma divergência, comunique o fiscal de sala.
5. Após conferência, assine seu nome no espaço próprio na **FOLHA DE RESPOSTAS** e no **CADERNO DE QUESTÕES**.
6. OBRIGATORIAMENTE a **FOLHA DE RESPOSTAS** deverá ser preenchida com **caneta esferográfica feita em material transparente de tinta preta ou azul.**
7. Não é permitida, no momento da prova, a comunicação entre os candidatos, bem como a utilização de aparelhos eletrônicos (calculadora, telefone celular, tablet, etc.), óculos escuros, protetor auricular, boné, relógios, livros, anotações, impressos ou qualquer outro material de consulta.
8. A saída de candidato da sala de prova somente será permitida depois de transcorrido o tempo de **01 (uma) hora do início da prova** (apontado em sua sala de prova), mediante a entrega obrigatória da sua folha de respostas e do seu caderno de questões ao fiscal de sala.
9. O candidato poderá, ao terminar sua prova, levar o Caderno de Questões **SOMENTE** faltando **30 (trinta) minutos** para o tempo previsto do seu término.
10. O tempo disponível para a prova é de **03** (**três)horas**.
11. Será eliminado do concurso e terá sua prova anulada, o candidato(a) que **NÃO ASSINAR A LISTA DE PRESENÇA** e/ou a **FOLHA DE RESPOSTAS.**
12. Os três últimos candidatos, ao terminarem a prova, só poderão sair juntos. **BOA PROVA!**

DESTAQUE NA LINHA PONTILHADA

01		05		09		13		17		21		25		29		33		37	
02		06		10		14		18		22		26		30		34		38	
03		07		11		15		19		23		27		31		35		39	
04		08		12		16		20		24		28		32		36		40	

LÍNGUA PORTUGUESA

QUESTÃO 01
Leia atentamente o texto a seguir e responda as questões 01 e 02

Insônia infeliz e feliz

De repente os olhos bem abertos. E a escuridão toda escura. Deve ser noite alta. Acendo a luz da cabeceira e para o meu desespero são duas horas da noite. E a cabeça clara e lúcida. Ainda arranjarei alguém igual a quem eu possa telefonar às duas da noite e que não me maldiga. Quem? Quem sofre de insônia? E as horas não passam. Saio da cama, tomo café. E ainda por cima com um desses horríveis substitutos do açúcar porque Dr. José Carlos Cabral de Almeida, dietista, acha que preciso perder os quatro quilos que aumentei com a superalimentação depois do incêndio. E o que se passa na luz acesa da sala? Pensa-se uma escuridão clara. Não, não se pensa. Sente-se. Sente-se uma coisa que só tem um nome: solidão. Ler? Jamais. Escrever? Jamais. Passa-se um tempo, olha-se o relógio, quem sabe são cinco horas. Nem quatro chegaram. Quem estará acordado agora? E nem posso pedir que me telefonem no meio da noite pois posso estar dormindo e não perdoar. Tomar uma pílula para dormir? Mas e o vício que nos espreita? Ninguém me perdoaria o vício. Então fico sentada na sala, sentindo. Sentindo o quê? O nada. E o telefone à mão.
Mas quantas vezes a insônia é um dom. De repente acordar no meio da noite e ter essa coisa rara: solidão. Quase nenhum ruído. Só o das ondas do mar batendo na praia. E tomo café com gosto, toda sozinha no mundo. Ninguém me interrompe o nada. É um nada a um tempo vazio e rico. E o telefone mudo, sem aquele toque súbito que sobressalta. Depois vai amanhecendo. As nuvens se clareando sob um sol às vezes pálido como uma lua, às vezes de fogo puro. Vou ao terraço e sou talvez a primeira do dia a ver a espuma branca do mar. O mar é meu, o sol é meu, a terra é minha. E sinto-me feliz por nada, por tudo. Até que, como o sol subindo, a casa vai acordando e há o reencontro com meus filhos sonolentos.
(A descoberta do mundo – Clarisse Lispector)
Disponível em: https://www.revistaprosaversoearte.com/insonia-infeliz-e-feliz-clarice-lispector/

De acordo com o texto, pode-se afirmar:
(A) A insônia é adquirida pelo habito de tomar café.
(B) Todas as pessoas que sofrem de insônia sentem-se felizes por nada, e por tudo.
(C) As pessoas precisam ter boa alimentação para dormir bem.
(D) A insônia é considerada um dom, pois permite um momento sem interrupções e valoroso.
(E) Quem tem insônia não pensa em nada durante a madrugada.

QUESTÃO 02
A tipologia textual de "Insônia feliz e infeliz" é:
(A) Prescrição.
(B) Injunção.
(C) Argumentação.
(D) Descrição.
(E) Narração.

QUESTÃO 03
Marque a alternativa que apresenta um exemplo de oração coordenada assindética.
(A) Jéssica estava cansada, triste e estressada.
(B) João não queria conversar, ou seja, estava tímido.
(C) Carlos não se comportou, portanto ficará de castigo.
(D) Emanuel ora quer tomar açaí, ora quer tomar guaraná.
(E) Edson trabalha muito, mas ganha pouco.

QUESTÃO 04
Assinale a alternativa em que todas as palavras estão empregadas corretamente conforme o sistema ortográfico vigente.
(A) Esse menino não pára de correr.
(B) O papai é meu heroi.
(C) A moça diz sentir muito enjôo na gravidez.
(D) Prefiro aparelhos com sistema androide.
(E) Tudo isso faz parte do neo-realismo.

QUESTÃO 05

Leia atentamente o trecho da letra da música "Insensatez".

"A insensatez que você fez
Coração mais sem cuidado
Fez chorar de dor
O seu amor
Um amor tão delicado".
(Insensatez - Antônio Carlos Jobim e Vinicius de Moraes)

Indique a alternativa que apresenta um sinônimo da palavra *"cuidado"***.**

(A) Circunspecção.
(B) Concepção.
(C) Mancomunação.
(D) Neurastenia.
(E) Decocto.

QUESTÃO 06

O princípio constitucional da publicidade não se esgota na mera publicação do texto, estendendo-se, ainda, à necessidade de que o texto seja claro. Segundo o Manual de Redação da Presidência da República, o atributo da precisão complementa a clareza e caracteriza-se por:

(A) Utilizar palavras e expressões simples, em seu sentido comum, salvo quando o texto versar sobre assunto técnico, hipótese em que se utilizará nomenclatura própria da área.
(B) Usar frases curtas, bem estruturadas; apresentar as orações na ordem direta e evitar intercalações excessivas. Em certas ocasiões, para evitar ambiguidade, sugere-se a adoção da ordem inversa da oração.
(C) Buscar a uniformidade do tempo verbal em todo o texto.
(D) Não utilizar regionalismos e neologismos.
(E) Manifestação do pensamento ou da ideia com as mesmas palavras, evitando o emprego de sinonímia com propósito meramente estilístico.

QUESTÃO 07

João tinha um compromisso entre .....nove e.....dez da manhã, mas acordou quando o relógio marcava quase dez, atrasado, dirigiu-se.....sua mãe para pedir uma carona. Das alternativas abaixo, selecione a que completa as lacunas corretamente.

(A) às, às, a.
(B) as, as, à.
(C) às, as, à.
(D) as, às, à.
(E) as, as, há.

QUESTÃO 08

Na frase: "Convenceu-se de que o amor é prejuízo", indique qual a classificação quanto ao tipo de oração.

(A) Oração subordinada substantiva objetiva indireta.
(B) Oração subordinada substantiva objetiva direta.
(C) Oração subordinada substantiva predicativa.
(D) Oração subordinada substantiva completiva nominal.
(E) Oração subordinada substantiva subjetiva.

QUESTÃO 09

Com relação ao diálogo observado entre os personagens da imagem ao lado NÃO é correto afirmar:

(A) "eu" é pronome.
(B) "como" está indicando adverbio de modo.
(C) "que" está exercendo a função de pronome interrogativo.
(D) "como" está exercendo a função de verbo.
(E) "em" é preposição.

Disponível em: https://m.facebook.com/DevaneiosComSigmundEFreud/photos/comer-/2047819041914618/

QUESTÃO 10

Assinale a alternativa que NÃO apresenta um exemplo de colocação pronominal empregado corretamente.

(A) Diga-me o que sabes sobre o tema.
(B) Não era minha intensão assustar-te.
(C) Nada incomoda-me.
(D) Depois de terminar, avisem-nos.
(E) Sorriu fazendo-se de boba.

RACIOCÍNIO LÓGICO

QUESTÃO 11

Antônio é um educador financeiro e gosta de mostrar aos seus 4 (quatro) sobrinhos como poupar dinheiro pode proporcionar algo de bom no futuro. Ele resolveu separar 50 (cinquenta) reais toda semana e dividir igualmente aos sobrinhos. A sobra é guardada em um cofre. Ao final do ano, eles gastam o que foi guardado no cofre em uma tarde alegre. Sabendo-se que o ano teve 52 (cinquenta e duas) semanas completas, quantos reais eles gastaram nessa tarde?

(A) R$ 104,00.
(B) R$ 125,00.
(C) R$ 134,00.
(D) R$ 145,00.
(E) R$ 154,00.

QUESTÃO 12

O dono de uma empresa preocupado com a saúde de seus 1.200 colaboradores, resolveu fazer uma pesquisa para saber quem tem bons hábitos relacionados a saúde. Descobriu que $\frac{3}{5}$ dos funcionários são homens e a metade deles tem o costume de fazer exercícios físicos. Quanto às mulheres, apenas 5% delas fazem exercícios físicos. Qual o número absoluto de mulheres que fazem exercícios físicos?

(A) 20.
(B) 24.
(C) 26.
(D) 34.
(E) 36.

QUESTÃO 13

Um hacker descobriu que sua vítima escolheu colocar como senha de banco os algarismos referentes ao dia e ao mês de sua data de nascimento. Ele não sabe a ordem dos 4 (quatro) algarismos, então decidiu utilizar o método "força bruta", qual seja, tentar todas as combinações alterando a ordem dos algarismos.

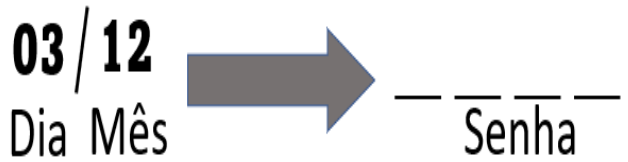

Sabendo-se que não há repetição de algarismos e que todos foram utilizados, qual o total de tentativas que o hacker pode fazer?

(A) 16.
(B) 24.
(C) 30.
(D) 36.
(E) 42.

QUESTÃO 14

Uma pesquisa foi feita para fazer um levantamento sobre a preferência de consumo de quatro marcas existentes no mercado para um público local. O total de entrevistados foi de 1.400 (mil e quatrocentas) pessoas, sendo que cada um escolheu apenas uma marca de preferência.

Os resultados ainda não foram todos colocados no gráfico a seguir. Faltam os dados das marcas B e D.

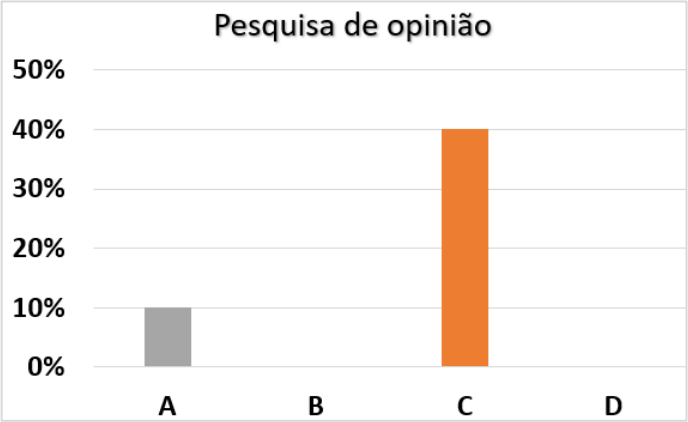

Sabe-se que 280 (duzentos e oitenta) pessoas escolheram a marca B como preferida.
Assim sendo, pergunta-se: qual a altura, em porcentagem, que deverá ser demarcada na coluna da marca D?

(A) 15%.
(B) 20%.
(C) 25%.
(D) 30%.
(E) 35%.

QUESTÃO 15
Cada funcionário de uma empresa toma, em média, dois copos de 400 (quatrocentos) ml de água por dia. Sabendo-se que a empresa compra garrafões de vinte litros de água, quantos dias são necessários para que 04 (quatro) funcionários consumam a água de um garrafão cheio?
(A) Exatamente 5 dias.
(B) Entre 5 e 6 dias.
(C) Entre 6 e 7 dias.
(D) Entre 7 e 8 dias.
(E) Mais que 8 dias.

QUESTÃO 16
Os administradores de uma fábrica de copos descartáveis sabem que parte da produção sempre é perdida, pois saem das máquinas alguns copos defeituosos que não podem ser comercializados. Então, eles foram a uma feira da indústria a procura de uma máquina com maior eficiência na produção de copos, ou seja, que apresente a menor razão de perdas por produção. A tabela abaixo mostra 05 (cinco) máquinas com suas respectivas produções e a quantidade de copos defeituosos ao final destas produções.

Máquina	Produção de copos	Copos defeituosos
A	1200	24
B	2000	60
C	3000	90
D	1000	15
E	5000	55

Se o preço não é o problema, qual delas deve ser comprada baseada na melhor eficiência?

(A) A.
(B) B.
(C) C.
(D) D.
(E) E.

QUESTÃO 17
Sérgio descobriu um site que poderia fazer um boneco personalizado por meio de uma impressora 3D. Ficou empolgado e resolveu encomendar um boneco do *Minecraft* (veja a imagem abaixo) com o rosto do seu filho. Ele precisa enviar uma foto do rosto da criança e as dimensões do boneco (apenas altura e largura). A imagem a seguir mostra as dimensões escolhidas por Sérgio.

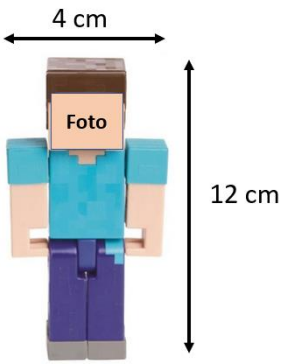

No entanto, lendo as instruções do site, Sérgio descobriu que as medidas devem ser enviadas em decímetro (dm). Então os campos a serem preenchidos com a largura e altura devem ter, respectivamente:

(A) 0,0004 e 0,0012 dm.
(B) 0,004 e 0,012 dm.
(C) 0,04 e 0,12 dm.
(D) 0,4 e 1,2 dm.
(E) 40 e 120 dm.

QUESTÃO 18
Todas as premissas a seguir são verdadeiras:

P_1: ***Se Sara é empática, então Júlia não é paciente.***
P_2: ***Pedro não é danado ou Júlia é paciente.***
P_3: ***Pedro é danado.***

Diante das premissas ao lado, podemos chegar à conclusão de que:
(A) Sara é empática e Pedro é danado.
(B) Júlia não é paciente ou Sara é paciente.
(C) Sara e Júlia são amorosas.
(D) Júlia é paciente ou Sara não é empática.
(E) Pedro não é danado e Júlia é paciente.

QUESTÃO 19
As sentenças abaixo são verdadeiras:

Todos os alunos da escola são trabalhadores rurais.
Alguns alunos da escola são felizes.
Antônio é aluno da escola.
José é trabalhador rural.

Assim sendo podemos concluir que:
(A) Antônio é feliz.
(B) José é aluno da escola.
(C) José não é feliz.
(D) José e Antônio são alunos da escola.
(E) Alguns trabalhadores rurais são felizes.

QUESTÃO 20
Na compra de um combo em uma lanchonete, o cliente tem o direito de ganhar um copo para colecionar, sendo que são 5 (cinco) tipos diferentes de cores. Após a compra, o computador faz um sorteio aleatório dos copos que aquele estabelecimento tem no estoque. A lanchonete em que João comprou o combo tem 420 (quatrocentos e vinte) copos, 20% (vinte por cento) são azuis, 16 (dezesseis) copos são laranjas e o restante nas outras cores. João não gosta da cor laranja e quer qualquer cor, menos a laranja. Ao fazer o sorteio, qual a probabilidade de João sair satisfeito?

(A) $\frac{16}{420}$.
(B) $\frac{20}{420}$.
(C) $\frac{404}{420}$.
(D) $\frac{84}{420}$.
(E) $\frac{336}{420}$.

NOÇÕES DE INFORMÁTICA

QUESTÃO 21
Dentro do estudo das Redes de Computadores observamos uma série de conceitos que abrangem suas mais variadas estruturas e funcionalidades. Dentre esses conceitos encontramos os que versam sobre a sua topologia.
"A topologia de rede descreve o modo como todos os dispositivos estão ligados entre si e a forma como se processa a troca de informação entre eles. Essa topologia garante a redução de custos e o aumento da eficiência do sistema por meio da combinação de recursos" *(MENDES, 2016, p.48)*.

Observe as assertivas que se seguem sobre o cenário em questão e depois indique a alternativa que apresenta conteúdo correto.
I - A topologia estrela é caracterizada por um elemento central que gerencia o fluxo de dados da rede, estando diretamente conectado (ponto a ponto) a cada dispositivo de rede.

II - A topologia linear é formada por um círculo lógico aberto e tem como vantagem principal a presença de atenuação que permite a confirmação dos dados enviados e recebidos.

III - Na topologia do tipo anel se observa uma regeneração do sinal transmitido cada vez que o mesmo passa por uma estação da rede.

(A) A assertiva II está correta, mas a assertiva I não apresenta conteúdo verdadeiro, visto que a característica apresentada é observada na topologia do tipo barramento.
(B) O conteúdo da assertiva I está correto, no entanto, o que é afirmado na assertiva II não é verdadeiro.
(C) A assertiva I apresenta conteúdo falso, pois a característica apresentada é observada na topologia linear.
(D) A assertiva I está correta, no entanto, o conteúdo expresso na assertiva III não é verdadeiro, pois a regeneração apontada não ocorre.
(E) O conteúdo da assertiva III é verdadeiro, assim como o conteúdo da assertiva II.

QUESTÃO 22

"As chamadas ameaças virtuais, estão cada dia mais comuns, principalmente devido ao grande número de dispositivos conectados nas redes: PC's, notebooks, tablets e smartphones são alvos visados com frequência por criminosos, que muitas vezes formam grandes quadrilhas e redes criminosas especializadas nesses tipos de crimes".

Disponível em: https://www.icmpconsultoria.com.br/post/conheca-as-principais-ameacas-virtuais. Acesso em: 15 dez.2021.

Dentro do contexto das ameaças e pragas virtuais, uma consideração mais adequada a "*Malware*" é:

(A) Coleta informações sobre hábitos online de um usuário como seu histórico de navegação, usando a Internet para passar essas informações a terceiros, sem o conhecimento desse usuário. "Keylogger" é um tipo de malware que monitora as teclas de um teclado.

(B) Qualquer tipo de software malicioso que tenta infectar, por exemplo, um computador ou tablet. É utilizado, na maioria das vezes, para extrair informações pessoais ou até mesmo para impedir que um usuário acesse seu próprio computador.

(C) É um tipo de programa que é mantido por propagandas que aparecem como janelas "pop-up" ou como barra de ferramentas em um navegador de internet. São considerados seguros, no entanto, podem coletar informações pessoais e rastrear sites por onde o usuário navega.

(D) É utilizado por "cibercriminosos" com o objetivo de descobrir informações do usuário como senhas; números de CPF; cartão de crédito e até número de contas bancárias. A prática se dá através do envio de e-mails falsos ou direcionando o usuário a websites falsos.

(E) É também conhecido como "cavalo de tróia" e geralmente são espalhados através de um anexo de e-mail infectado ou num download de games gratuitos, aplicativos, filmes ou cartões de visita. Normalmente deixa o computador mais lento em razão de excesso de carga no processador.

QUESTÃO 23

"Basicamente, o armazenamento em nuvem consiste no ato de armazenar um ou mais arquivos em um HD fora da sua máquina, através da internet. Um ponto curioso a se considerar é que, muitas vezes, estes arquivos armazenados podem nem estar fisicamente no mesmo país que você reside".

Disponível em: https://canaltech.com.br/internet/armazenamento-em-nuvem-o-que-e/ . Acesso em: 15 dez.2021.

Nos dias de hoje, muitas empresas adotam o armazenamento em nuvem dentro do cenário de segurança da informação, utilizando essa ferramenta digital como um procedimento de backup. Aponte a alternativa que apresenta exemplos verdadeiros de serviços de armazenamento em nuvem.

(A) Google Drive; iCloud e; One Drive.
(B) Opera Drive; Microsoft Cloud e; Google Drive.
(C) Net Google; iCloud Explorer e; One Drive.
(D) Cloud Drive; Fox NetCloud e; Opera Drive.
(E) Chrome Cloud; Net Google e; Mozilla Drive.

QUESTÃO 24

"Muitos são os procedimentos executáveis no universo da Informática e um deles diz respeito ao importante processo de organização e gerenciamento dos dados manipulados dentro de uma empresa".

Fernando irá atuar no setor de tecnologia da *Unidos Venceremos Ltda* e será o responsável pela organização e gerenciamento de todos os dados que a instituição irá utilizar, incluindo arquivos e programas dos mais diversos tipos. Para a execução desse procedimento, ele irá precisar de um dispositivo/mídia disponível no mercado que armazene 8.300MB. Assim sendo, ele poderá utilizar para contemplar todos os dados:

(A) Um CD de 16GB.
(B) Um pendrive de 8GB.
(C) Um DVD de 8,5GB.
(D) Um zipdrive de 16.048MB.
(E) Um floppy disk de 12GB.

QUESTÃO 25

"O Excel é um software da Microsoft utilizado para construção de planilhas eletrônicas. Ele oferece uma série de recursos para personalização dessas planilhas que nada mais são do que uma composição de várias células".

Observe a imagem a seguir que mostra que o posicionamento do texto/conteúdo em uma célula pode ser alterado. Pergunta-se: qual das alternativas a seguir, apresenta um caminho válido para o usuário acessar esse recurso?

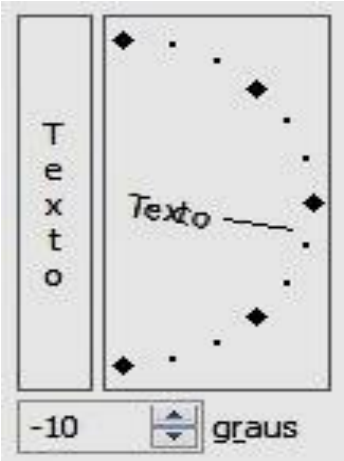

"O Excel é um software da Microsoft utilizado para construção de planilhas eletrônicas. Ele oferece uma série de recursos para personalização dessas planilhas que nada mais são do que uma composição de várias células".

Observe a imagem ao lado que indica que o posicionamento do texto/conteúdo em uma célula pode ser alterado.

Pergunta-se: qual das alternativas a seguir, apresenta um caminho válido para o usuário acessar esse recurso?

(A) Com a célula ativa, clicar na opção "exibição" do menu principal >> clicar no botão "orientação".
(B) Clicar com o botão direito do mouse em cima da célula >> escolher a opção "formatar células" >> acessar a opção "alinhamento".
(C) Com a célula ativa, clicar na opção "exibição" do menu principal >> acessar a opção "orientação" >> clicar no botão "alinhamento".
(D) Clicar com o botão direito do mouse em cima da célula >> escolher a opção "configurar células" >> acessar a opção "orientação".
(E) Com a célula ativa, clicar na opção "formatar" do menu principal >> escolher a opção "orientação" >> clicar no botão "alinhamento".

ATUALIDADES

QUESTÃO 26

No final do mês de março deste ano os canais de comunicação começaram a noticiar que apesar de estar realizando um ótimo trabalho como Ministro da Infraestrutura, Tarcísio Gomes de Freitas deixaria sua atuação atual no governo do Presidente Bolsonaro. De acordo com as manchetes daquele período o fato em questão se deu em razão do ministro

(A) ter que cumprir uma obrigatoriedade de desfiliação partidária do governo para concorrer a Câmara Legislativa.
(B) estar inclinado a aceitar uma proposta de assumir uma nova pasta ministerial.
(C) ter que tirar um longo período de licença para tratamento de saúde.
(D) estar recebendo muitas ameaças contra sua vida e de seus familiares.
(E) ser pré candidato ao governo do Estado de São Paulo.

QUESTÃO 27

"A inovação é uma das diretrizes que temos que trazer para nossas políticas públicas de logística. O Triip representa um estado reformado, inovador, que se coloca no lugar do cidadão como um usuário do serviço", destacou o secretário-executivo substituto do Ministério da Infraestrutura (MInfra), Felipe Queiroz, em palestra que encerrou o workshop Triip Brasil – Salvando Vidas, terça-feira, 19/04/22. (evento organizado pela Agência Nacional de Transportes Terrestres - ANTT).

De acordo com Queiroz, o desafio do Ministério da Infraestrutura é transformar as diretrizes de segurança pública em ações e resultados, que é feito por meio de iniciativas como o

(A) Projeto de Inovação Rodoviária Federal - PIRF.
(B) Programa de Modernização de Rodovias Federais, o inov@BR.
(C) Projeto Federal de Desenvolvimento Rodoviário - PFRod.
(D) Plano Federal de Modernização Rodoviária, o planRod.
(E) Planejamento Federal de Inovação Rodoviária.

QUESTÃO 28

"Defendido pela Rússia, Brasil é contra sistema de pagamento do "Brics". O Ministério da Economia quer um sistema mais ágil que o atual, mas entende que a questão deve ser discutida de forma global". (Revista Oeste. 14/04/2022).

Pergunta-se: o que é o "Brics"?
(A) Um tipo de movimentação financeira onde se supervaloriza a moeda russa.
(B) Uma transação monetária internacional que necessita de pagamento de taxas.
(C) Conselho de representatividade internacional formado para discutir políticas de câmbio.
(D) Bloco composto por alguns países do qual faz parte o Brasil e a Rússia.
(E) Um sistema multinacional criado com o objetivo de regularizar transferências financeiras.

QUESTÃO 29
"O conselho administrativo de uma famosa rede social utilizou uma conhecida ação do mercado de ações para impedir a sua aquisição completa formalizada pela pessoa mais rica do mundo, o empresário *Elon Musk*. Essa movimentação não necessariamente impede a compra, mas pode reduzir a vontade de outros empresários de negociarem a sua parte".

A Rede Social de que trata o texto acima é?
(A) Instagram.
(B) Facebook.
(C) Twitter.
(D) LinkedIn.
(E) Telegram.

QUESTÃO 30
Está correto afirmar sobre a 26ª Conferência das Nações Unidas que discutiu a respeito das mudanças climáticas ocorridas em nosso planeta.
(A) Ocorreu no mês de novembro do ano de 2021 na cidade de Glasgow, na Escócia, e reuniu representantes dos 196 países signatários do Acordo de Paris.
(B) Entre os assuntos discutidos está a expansão de infraestrutura a ser adotada por todos os países em instalação de novas ONG's fiscalizadoras da preservação do meio ambiente.
(C) O Ministro Ricardo Salles chefiou a delegação do Brasil, negociando com outros países e buscando um consenso em temas relevantes como o financiamento climático.
(D) Uma das maiores contribuições do Brasil às propostas de controle de emissão de gases de efeito estufa foi o compartilhamento do Programa Nacional de Combate a Poluição (PNCP).
(E) Alemanha, Inglaterra e França ofereceram em forma de consócio, uma proposta unificada de desaceleração regressiva e contínua nos seus níveis de emissão de gases poluentes.

MOTORISTA

QUESTÃO 31
Considerando o rol da Competência do Sistema Nacional de Trânsito, marque a alternativa que NÂO compete aos Conselhos Estaduais de Trânsito.
(A) Ser obstante no julgamento dos recursos interpostos contra decisões.
(B) Estimular e orientar a execução de campanhas educativas de trânsito.
(C) Elaborar normas no âmbito das respectivas competências.
(D) Responder a consultas relativas à aplicação da legislação e dos procedimentos normativos de trânsito.
(E) Cumprir e fazer cumprir a legislação e as normas de trânsito, no âmbito das respectivas atribuições.

QUESTÃO 32
As Câmaras Temáticas são órgãos técnicos vinculados ao CONTRAN. Conforme o Código de Trânsito Brasileiro, assinale a alternativa que apresenta conformidade com as exigências necessárias para a integração de membros componentes das Câmaras Temáticas.
(A) É composta exclusivamente por profissionais com formação em engenharia de trânsito.
(B) São constituídas por especialistas representantes das entidades de controle social.
(C) Seus representantes são dos diversos segmentos da sociedade.
(D) No total de seus componentes, 50% são indicados segundo regimento específico definido pelo CONTRAN.
(E) Seus componentes são designados apenas como coordenador máximo do Sistema Nacional de Trânsito.

QUESTÃO 33
Sinais vitais são aqueles que indicam a existência de vida. São reflexos ou indícios que permitem concluir sobre o estado geral de uma pessoa. Os sinais sobre o funcionamento do corpo humano que são compreendidos e conhecidos como vitais são: ·

(A) Temperatura; pulso; respiração e; pressão arterial.
(B) Temperatura; batimento cardíaco; respiração e; dilatação da iris dos olhos.
(C) Pressão arterial; pulso; oxigenação e; temperatura.
(D) Batimento cardíaco; oxigenação; pressão arterial e; dilatação da iris dos olhos.
(E) Pulso; temperatura; pressão arterial e; dilatação da iris dos olhos.

QUESTÃO 34

Na aplicação de primeiros socorros, a "Posição Lateral de Segurança" deve ser usada para manter a vítima em segurança até à chegada da ajuda médica. Assinale a resposta que NÂO confere com os procedimentos desta manobra de primeiros socorros.

(A) Colocar uma das mãos da vítima embaixo do próprio corpo.
(B) Dobrar um dos dois joelhos da vítima, mantendo-o seguro com uma das mãos.
(C) Colocar a outra mão da vítima embaixo do próprio pescoço, mantendo uma das mãos sob o pescoço dela.
(D) Segurar a vítima apenas pelo joelho direito dobrado, lateralizando-a em sua direção.
(E) Posicionar o braço da vítima, que se encontrava sob seu próprio corpo, agora esticado ao lado dela.

QUESTÃO 35

O fogo é o principal agente das queimaduras, embora as produzidas pela eletricidade sejam as mais graves. A dor de queimadura é resultante do contato nas terminações nervosas. Marque a alternativa que NÂO está de acordo com os procedimentos que devem ser aplicados para aliviar a dor e prevenir infecção no local da queimadura.

(A) Não retirar as roupas queimadas que estiverem aderidas a pele.
(B) Não utilizar água em queimaduras provocadas por pó químico.
(C) Não oferecer água a vítima de queimaduras com mais de 20% (vinte por cento) da superfície corporal atingida.
(D) Não romper as bolhas. Se as bolhas estiverem rompidas colocar sobre elas, gazes umedecidas.
(E) Não aplicar gelo sobre a queimadura, pois o mesmo poderá agravar ainda mais a queimadura.

QUESTÃO 36

O processo de interação humana se encontra presente nas organizações, e a forma como se dão essas interações influencia os resultados nas relações interpessoais. Certas dificuldades se apresentam na dimensão interpessoal prejudicando seu desempenho. Marque a alternativa que comtempla uma destas dificuldades.

(A) Excesso no foco das necessidades pessoais.
(B) Conflitos na carreira profissional.
(C) Dificuldade em cumprir horários.
(D) Quantidade excessiva de pessoas na equipe.
(E) Falta de objetivos pessoais.

QUESTÃO 37

A empatia é essencial nas relações interpessoais. Sua prática possibilita um convívio mais assertivo em todas as dimensões da nossa convivência. Assinale a alternativa que comtempla o conceito de empatia.

(A) É a atitude de atenção e consideração do outro no convívio diário.
(B) É a capacidade de reconhecer as preocupações e interesses dos outros.
(C) Preconiza o comportamento de gentileza e acolhimento do outro no ambiente de trabalho.
(D) É a capacidade de manter um diálogo produtivo e respeitoso com os outros.
(E) É a atitude de considerar o seu espaço e o espaço dos outros na convivência diária.

QUESTÃO 38

Os avanços da humanidade e o seu progresso enquanto sociedade organizada trouxeram vários prejuízos ao meio ambiente. Considerando-se o contexto legal na Constituição Brasileira, qual alternativa está de acordo com a preservação do meio ambiente?

(A) A preservação do meio ambiente é assegurada na Constituição Brasileira.
(B) Não está citada na Constituição Brasileira.
(C) O projeto de ordem popular para a consideração da lei de meio ambiente na Constituição Brasileira foi encaminhado em janeiro de 2022.
(D) Foi criado em janeiro de 2022 um Comitê Nacional para discutir as premissas de defesa do meio ambiente a serem comtempladas na Constituição Brasileira.
(E) Está definida a pauta no congresso para discutir a inserção da defesa do meio ambiente na Constituição Brasileira após as eleições de 2022.

QUESTÃO 39

A educação para o trânsito é direito de todos e constitui dever prioritário para os componentes do Sistema Nacional de Trânsito. Assinale a alternativa que atende o contexto da Lei de Trânsito sobre educação no trânsito.

(A) É coordenada por meio de planejamento e ações entre os órgãos e entidades do Sistema Nacional de Trânsito e de Educação, exclusivamente em nível da esfera estadual.
(B) Os órgãos ou entidades executivos de trânsito deverão promover, dentro de sua estrutura organizacional ou mediante convênio, o funcionamento de Escolas Públicas de Trânsito.
(C) Os órgãos ou entidades do Sistema Nacional de Trânsito deverão promover outras campanhas no âmbito de sua circunscrição e de acordo com o modelo nacional.
(D) As campanhas não são de caráter permanente, e os serviços de rádio e difusão explorados pelo poder público serão remunerados economicamente.
(E) O período máximo de difusão das campanhas será de 12(doze) meses, podendo ser prorrogadas por mais 12(doze) meses, sendo necessária a provocação da prorrogação.

QUESTÃO 40

O Código de Trânsito Brasileiro institui em seu artigo 87 uma classificação dos sinais de trânsito. Aponte a alternativa que NÂO está presente entre os incisos do referido artigo.

(A) Lineares.
(B) Horizontais.
(C) Dispositivos de sinalização auxiliar.
(D) Sonoros.
(E) Gestos do agente de trânsito e do condutor.