POLÍCIA MILITAR DO CEARÁ - CE
PROCESSO SELETIVO
COLÉGIO DA POLÍCIA MILITAR DO CEARÁ GENERAL EDGARD FACÓ
EDITAL Nº001/2017-CPMGEF/PMCE.

# CADERNO DE QUESTÕES

## 2° ANO DO ENSINO FUNDAMENTAL

# GABARITO FINAL

**PRESENTE: ( )  AUSENTE: ( )**

| DISCIPLINAS | ACERTOS | NOTA |
|---|---|---|
| Português | _____ | _____ |
| Matemática | _____ | _____ |

# QUESTÃO EXEMPLO

Considerando os desenhos abaixo, marque a **ÚNICA** alternativa que nomeia corretamente as formas geométricas





**(A)** Triângulo e Circulo

**(B)** Triângulo e Quadrado

**(C)** Círculo e Quadrado

**(D)** Retângulo e Quadrado

# LÍNGUA PORTUGUESA

## QUESTÃO 01

Leia o poema a seguir:

**AS BORBOLETAS**

Brancas
Azuis
Amarelas
E pretas
Brincam
Na luz
As belas borboletas.

Borboletas brancas
São alegres e francas.

Borboletas azuis
Gostam muito de luz.

As amarelinhas
São tão bonitinhas!

E as pretas, então...
Oh, que escuridão!

Vinícius de Moraes

Assinale com um **X** a alternativa que apresenta as características das **BORBOLETAS BRANCAS**.

**(A)** Bonitas e alegres

**(B)** Felizes e grandes

**(C)** Tristes e pequenas

**(D)** Alegres e francas

## QUESTÃO 02

O uso da letra maiúscula é indicado na escrita de nomes próprios. Assim, na frase:

> “ beatriz mora perto do lago.”

Faça um **X** na alternativa com a palavra que deve iniciar com a letra **MAIÚSCULA**.

**(A)** casa

**(B)** lago

**(C)** beatriz

**(D)** mora

## QUESTÃO 03

Leia o trecho do poema abaixo:

> **SONO PESADO**
> T**O**CA **O** **D**ESPERT**AD**OR
> E **M**EU PAI VE**M** M**E** CHAM**A**R
> **L**EVANT**A**, FILHO, L**E**VA**N**TA,
> TÁ **NA** HORA D**E** A**C**OR**DA**R [...]
> **Cláudio Thebas**

No poema acima, as palavras foram completadas com **CONSOANTES E VOGAIS**. Marque com um **X** a alternativa que indica a quantidade correta de consoantes e vogais utilizadas para completar o poema.

**(A)** 10 vogais e 09 consoantes

**(B)** 11 vogais e 09 consoantes

**(C)** 06 vogais e 08 consoantes

**(D)** 09 vogais e 10 consoantes

## QUESTÃO 04

Observe as palavras abaixo:

| | | |
|---|---|---|
| rato | Rodrigo | mamãe |
| Brasil | sabão | dedo |

Marque com um **X** a alternativa que apresenta as palavras que **DEVEM** ser escritas com a letra inicial MAIÚSCULA.

**(A)** sabão e rato

**(B)** mamãe e dedo

**(C)** Rodrigo e Brasil

**(D)** dedo e Brasil

## QUESTÃO 05

Suzana, precisa ir ao supermercado. E, para não esquecer dos itens que necessita comprar, ela fez a seguinte lista:

bolacha
café
detergente
macarrão
ovos
sabão em pó

Observando as palavras listadas, podemos dizer que é uma ordem:

**(A)** Numérica

**(B)** Alfabética

**(C)** Decrescente

**(D)** Crescente

**QUESTÃO 06**

Leia o texto e assinale a alternativa **correta**.

**A DONA ARANHA**
A dona Aranha subiu pela parede
Veio a chuva forte e a derrubou
Já passou a chuva e o sol já vem surgindo
E a dona Aranha continua a subir

Ela é teimosa e desobediente
Sobe, sobe, sobe e nunca está contente.

**Josette Feres**

A ideia principal do texto é:

**(A)** A desobediência da dona Aranha

**(B)** A alegria da dona Aranha

**(C)** A velocidade da dona Aranha

**(D)** A força da dona Aranha

**QUESTÃO 07**

Leia a palavra no quadro abaixo e em seguida marque a alternativa adequada.

**CARROSSEL**

A separação silábica da palavra escrita no quadro pode ser identificada em:

**(A)** CA – RRO – SSEL

**(B)** CAR – ROSS – EL

**(C)** C – A – R – R – O – S – S – E – L

**(D)** CAR - ROS - SEL

**QUESTÃO 08**

Observe o quadro abaixo e indique a alternativa **correta**:

João cedo e foi para a de .

A sequência descrita de imagens e palavras do quadro, diz que:

**(A)** João dormiu cedo e foi para a escola de ônibus

**(B)** João acordou cedo e foi para a escola de ônibus

**(C)** João acordou cedo e foi para o cinema de ônibus

**(D)** João acordou cedo e foi para a escola de carro

**QUESTÃO 09**

Observe o quadro abaixo e a seguir marque a opção **correta**.

Os personagens da turma da Mônica mostram que eles estão preocupados com:

**(A)** O risco de mexer com o fogo

**(B)** A preservação do meio ambiente

**(C)** Respeite as diferenças

**(D)** Alimentação saudável

# MATEMÁTICA

## QUESTÃO 10

Observe as imagens do quadro para escolher a alternativa **correta**

A sequência que descreve as imagens contidas no quadro acima é percebida em:

**(A)** COPO, CAMISA, VACA, DEDO

**(B)** TOCO, CAMISOLA, FACA, DADO

**(C)** BOTO, CALÇA, VELA, LADO

**(D)** SAPO, CASA, VASO, DENTE

## QUESTÃO 11

Observe a imagem da régua abaixo:

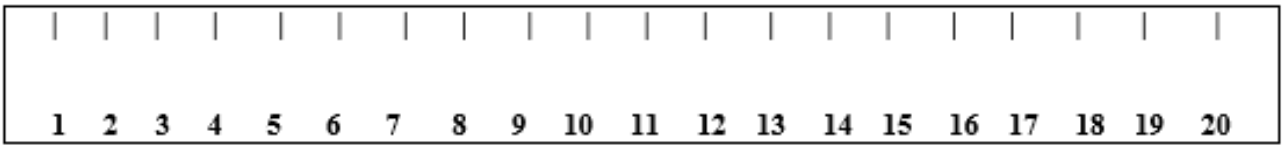


O antecessor de 17 e sucessor de 15 está indicado na alternativa:

**(A)** 14

**(B)** 18

**(C)** 16

**(D)** 19

## QUESTÃO 12

Analise a sequência de cada alternativa e marque com um **X** apenas a opção **INCORRETA** de antecessores e sucessores.

| | | | |
|---|---|---|---|
| **(A)** | 30 | 40 | 50 |

| | | | |
|---|---|---|---|
| **(B)** | 60 | 70 | 80 |

| | | | |
|---|---|---|---|
| **(C)** | 80 | 90 | 100 |

| | | | |
|---|---|---|---|
| **(D)** | 10 | 20 | 40 |

## QUESTÃO 13

Observe e analise o quadro abaixo, para optar pela alternativa **correta**.

| | | | | | | | | |
|---|---|---|---|---|---|---|---|---|
| | **30** | **40** | | **60** | **70** | | **90** | |

A sequência **correta** observada no quadro está indicada em:

**(A)** 20, 50, 80 e 100

**(B)** 20, 40, 50 e 90

**(C)** 40, 60, 80 e 100

**(D)** 30, 60, 70 e 90

**QUESTÃO 14**

A professora do 2º ano colou as atividades dos seus alunos no quadro da sala para exposição. O trabalho da Ana é o **QUARTO** na exposição. Marque com um **X** a imagem corresponde ao trabalho da Ana.

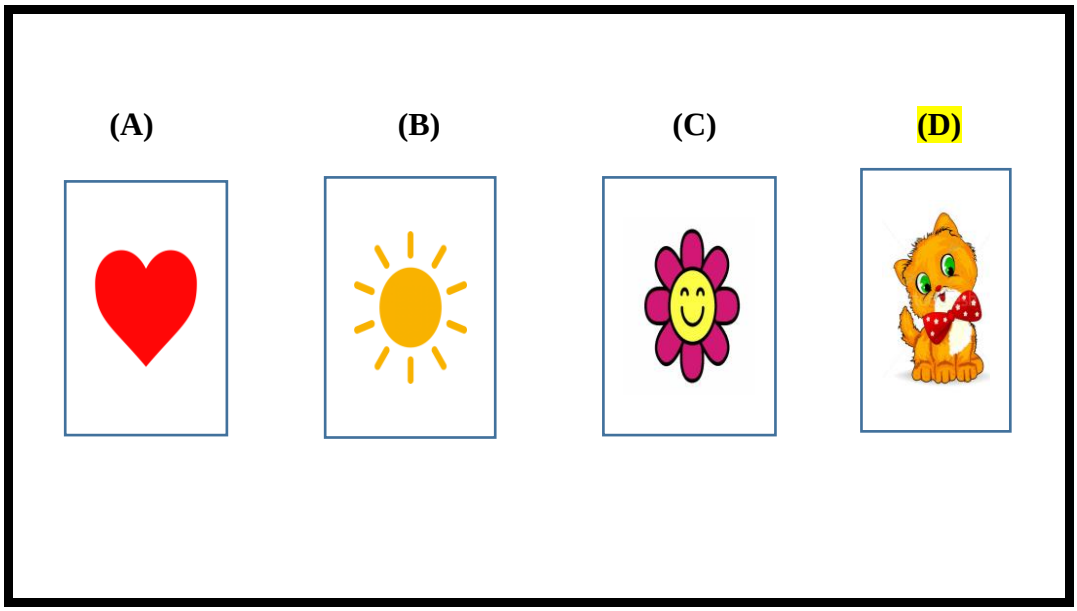


**QUESTÃO 15**

No shopping da cidade o gerente de uma loja de aparelhos eletrônicos realizou uma promoção. Neste dia foram vendidos 36 aparelhos celulares novos. Marque com um **X** a alternativa que melhor representa a quantidade **EM DÚZIAS** de celulares vendidos.

**(A)** 3 dúzias de celulares

**(B)** 2 dúzia de celulares

**(C)** 1 dúzia de celulares

**(D)** 4 dúzia de celulares

## QUESTÃO 16

Marque com um **X** qual alternativa abaixo representa a escrita correta por **EXTENSO** do valor da nota.

**(A)** Dezoito reais
**(B)** Dez reais
**(C)** Vinte reais
**(D)** Vinte e dois reais

## QUESTÃO 17

Pedro tinha 10 pirulitos mas deu 3 para o seu vizinho Carlos. Com quantos pirulitos Pedro ficou?

**(A)** 10

**(B)** 13

**(C)** 7

**(D)** 3

**QUESTÃO 18**

Joana preparou um bolo de chocolate com 8 fatias. Sua mãe comeu 2 fatias, com quantas fatias Joana ficou?

**(A)** 8

**(B)** 6

**(C)** 3

**(D)** 4

**QUESTÃO 19**

Observe a figura da pizza abaixo e marque qual a **FORMA GEOMÉTRICA** que se assemelha a imagem da pizza.

**(A)** Círculo

**(B)** Quadrado

**(C)** Triângulo

**(D)** Retângulo

## QUESTÃO 20

Marque com um **X** a alternativa que representa a **ORDEM DECRESCENTE** dos números que estão espalhados no quadro abaixo.

| | | | | |
|---|---|---|---|---|
| 10 | 1 | 3 | 5 | 2 |
| 8 | 9 | 4 | 6 | 7 |

**(A)** 1, 2, 3, 4, 5, 6, 7, 8, 9 e 10

**(B)** 0, 1, ,2, 3, 4, 5, 6, 7, 8, 9 e 10

**(C)** 0, 2, 4, 6, 8 e 10

**(D)** 10, 9, 8, 7, 6, 5, 4, 3, 2, 1