POLÍCIA MILITAR DO CEARÁ - CE
PROCESSO SELETIVO
COLÉGIO DA POLÍCIA MILITAR DO CEARÁ GENERAL EDGARD FACÓ
EDITAL Nº001/2017-CPMGEF/PMCE.

CADERNO DE QUESTÕES

1° ANO DO ENSINO FUNDAMENTAL

PRESENTE: ( ) **AUSENTE:** ( )

NOME: _____

SONDAGEM DAS HABILIDADES COGNITIVAS	
ACERTOS	_____
NOTA	_____

QUESTÃO EXEMPLO

Assinale com um **X** a alternativa correspondente à quantidade de crianças que estão utilizando CAPACETE.

(A) 5

(B) 3

(C) 8

(D) 2

QUESTÃO 01

Leia o trecho do poema a seguir:

MACACO

Um macaco
Tão maluco
Mete medo
No matuto [...]

Ruth Rocha

Marque com **X** a alternativa que contém as vogais que formam a palavra MALUCO:

(A) E, A, O

(B) A, U, O

(C) 3, 0, 1

(D) O, E, U

QUESTÃO 02

Juliana está fazendo uma lista do material escolar que levará para o seu primeiro dia de aula no Colégio Militar do Ceará. Ela ficou em dúvida na escrita de uma palavra. Ajude-a completar a palavra abaixo com as vogais que estão faltando.

	T E S O U R A

QUESTÃO 03

As frutas são importantes para mantermos uma boa saúde. A mãe de Lucas o incentiva a comer diariamente vários tipos de frutas. A fruta que Lucas escolheu para comer hoje foi:

Marque com um **X** a alternativa que corresponde à fruta escolhida por Lucas.

(A) Banana

(B) Abacate

(C) Uva

(D) Caju

QUESTÃO 04

Identifique e faça um **X** na alternativa que corresponde à palavra **FOGÃO**.

(A) vulcão

(B) fogão

(C) vagão

(D) zangão

QUESTÃO 05

A faixa de pedestre é utilizada para atravessarmos as ruas com segurança. O agente de trânsito é o profissional que nos auxilia nessa travessia. A imagem mostra crianças atravessando com segurança na faixa de pedestres com a ajuda de um agente de trânsito.

Qual é a criança que está **MAIS PERTO** do agente de trânsito? Marque a alternativa com o numeral que corresponde a essa criança.

(A) 4

(B) 1

(C) 5

(D) 2

QUESTÃO 06

Qual alternativa abaixo mostra a quantidade de galinhas que aparece na imagem a seguir?



(Cena do filme "A fuga das galinhas")

(A) 15

(B) 17

(C) 16

(D) 18

QUESTÃO 07

Observe e leia a tirinha a seguir:



Disponível em: www.turmadamonica.uol.com.br

Assinale com um **X** a alternativa que indica o que a palavra **"TCHÁÁÁ"** está representando no segundo quadrinho.

(A) O som da latinha ao cair na água.

(B) Um grito.

(C) O som da onda do mar.

(D) O nome do homem que foi atingido pela onda.

QUESTÃO 08

Leia a frase abaixo:

TODAS AS CRIANÇAS TÊM DIREITO À EDUCAÇÃO.

Assinale com um **X** a alternativa que apresenta o número que corresponde à quantidade de vogais utilizadas na frase.

(A) 15

(B) 16

(C) 17

(D) 18

QUESTÃO 09

Identifique e marque a alternativa que contém **SOMENTE VOGAIS**.

(A) A 3 I O U

(B) 1 E  U I

(C) I O E A U E

(D) A 3 1 O

QUESTÃO 10

Observe a imagem de um animal **DE COSTAS**:



Agora, **PINTE** com o lápis de cor a imagem que mostra esse mesmo animal **DE FRENTE**.



QUESTÃO 11

Gabriel irá comemorar o seu aniversário de 13 anos com um delicioso bolo de morango. Qual a alternativa mostra o número de velas que deverá ser comprada para decorar seu bolo?

(A)	
(B)	
(C)	
(D)	

QUESTÃO 12

Estamos no mês de dezembro, o mês do Natal. **COMPLETE** o calendário com os números que estão faltando.

DEZEMBRO - 2017

DOMINGO	SEGUNDA-FEIRA	TERÇA-FEIRA	QUARTA-FEIRA	QUINTA-FEIRA	SEXTA-FEIRA	SÁBADO
x	x	x	x	x	1	2
3	4	5	6	7	8	9
10	11	12	13	14	15	16
17	18	19	20	21	22	23
24	25 NATAL	26	27	28	29	
31						

QUESTÃO 13

Hoje são 10 de dezembro e não vejo a hora de chegar o Natal, que é comemorado no dia 25 deste mesmo mês. Conte quantos dias faltam para o Natal chegar e marque a opção correta.

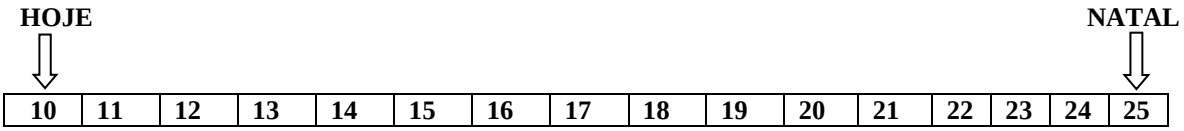

(A) 10

(B) 12

(C) 17

(D) 15

QUESTÃO 14

Observe os conjuntos abaixo e **CIRCULE** os conjuntos que apresentam **QUANTIDADES IGUAIS**.

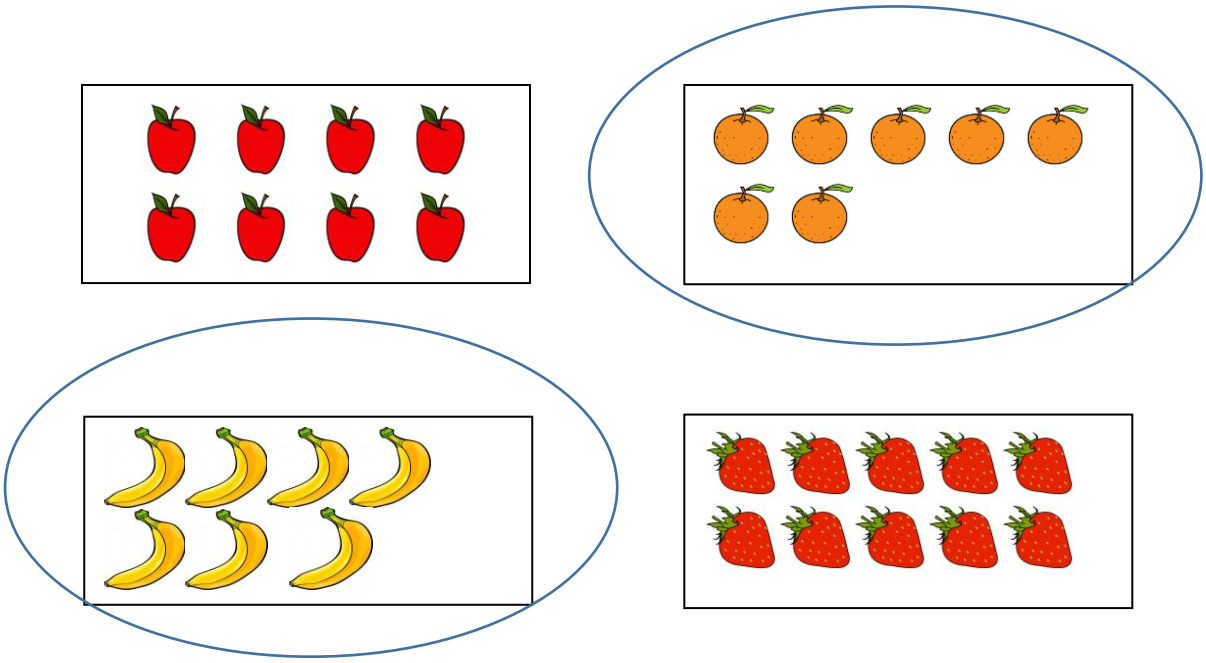

QUESTÃO 15

Observe a imagem e marque a alternativa **CORRETA**.

A alternativa que indica a quantidade de livros grossos e livros finos é:

(A) 7 livros grossos e 4 livros finos

(B) 4 livros grossos e 7 livros finos

(C) 6 livros grossos e 4 livros finos

(D) 5 livros grossos e 5 livros finos

QUESTÃO 16

Observe o quadro abaixo que mostra a escrita de alguns números.

SETE - CINCO - UM - OITO

Assinale a alternativa que mostra a mesma sequência de números descrita no quadro.

(A) 7, 3, 1, 8

(B) 3, 5, 1, 9

(C) 8, 2, 0, 3

(D) 7, 5, 1, 8

QUESTÃO 17

Tiago convidou para o seu aniversário 25 coleguinhas. A mãe de Tiago quer dar de brinde um pião para cada convidado. Faça um **X** na alternativa que apresenta a quantidade de piões correspondente à quantidade de convidados.

(A) 24

(B) 20

(C) 25

(D) 23

QUESTÃO 18

Marque com um **X** a alternativa que apresenta apenas **NÚMEROS**.

(A)		**(B)**		**(C)**		**(D)**	

QUESTÃO 19

Assinale com um **X** a alternativa com a imagem que falta para completar a sequência lógica.

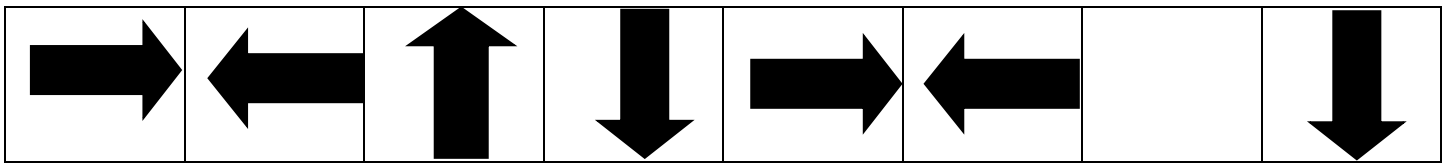

(A) 

(B) 

(C) 

(D)

QUESTÃO 20
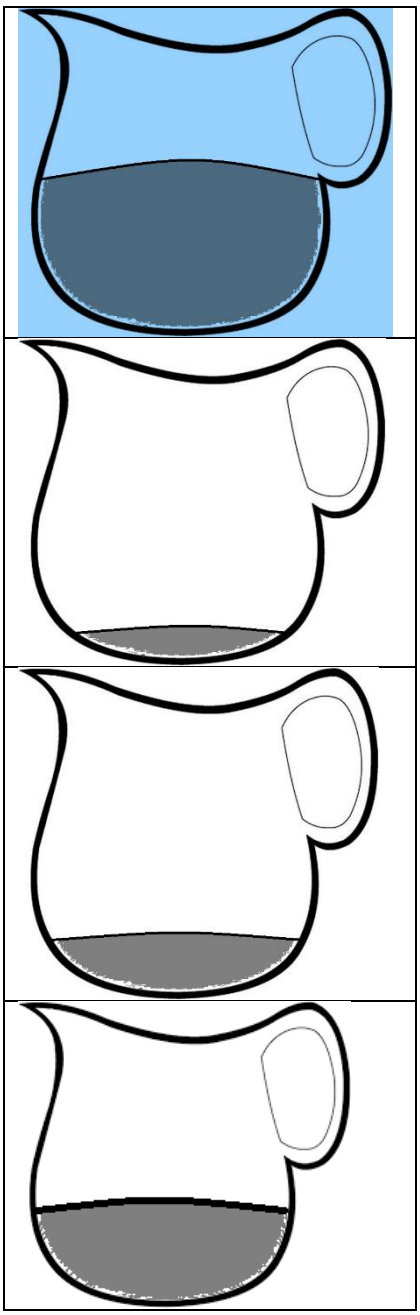
Mamãe comprou limões para fazer uma limonada bem gostosa. **PINTE** com o lápis de cor a jarra **MAIS CHEIA**.